Le nombre mystère

Niveau 2

Aujourd'hui, nous sommes le : __ / __ / 20 __

J'écris le nombre en chiffres :

c	d	u

C'est un nombre :

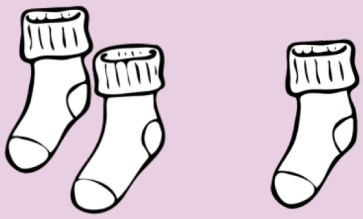

pair impair

Si le nombre est pair, je calcule sa moitié.

Je décompose le nombre : ☐ + ☐ + ☐

J'écris le nombre en lettres :

Je place le nombre sur la droite graduée :

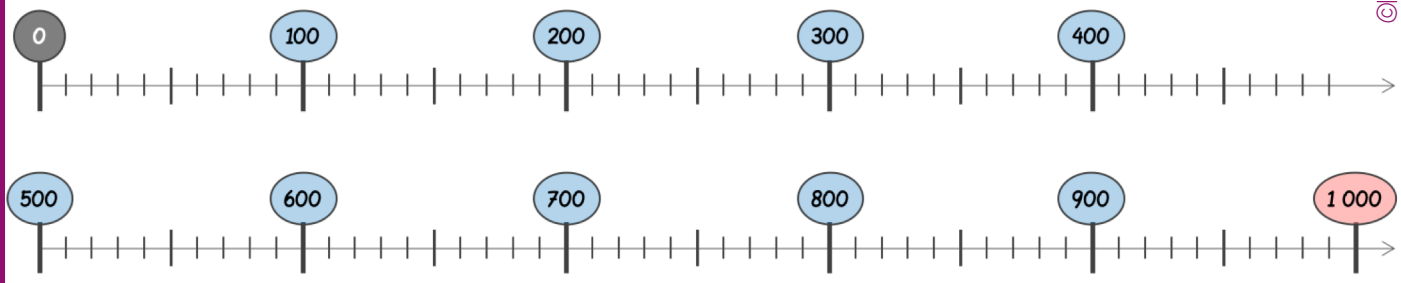

J'encadre le nombre :

☐	<	☐	<	☐	<	☐	<	☐	<	☐	<	☐
Centaine précédente		Dizaine précédente		Nombre précédent		Nombre mystère		Nombre suivant		Dizaine suivante		Centaine suivante

Je calcule le complément à la centaine :

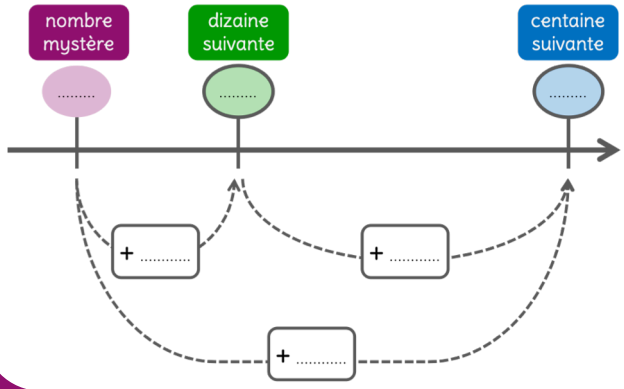

Dans la tirelire, il y a :

Je dessine la somme avec le moins de pièces et de billets possible.

Image de Mathifun - octofun.org
©lutinbazar.fr